وزارة التربية
منطقة الفروانية التعليمية

الفصل الدراسي الثاني
تدريب على اختبار القصير ٢
من صفحة ٦٠ الى صفحة ٧٣
مادة الجيولوجيا للصف حادي عشر علمي

اسم الطالب .....
الصف ١١ع.....

السؤال الاول : اختر الاجابة الصحيحة في مايلي (نصف درجة)

هي الخرائط التي توضح التضاريس المختلفة لمنطقة ما وارتفاعتها وتوزيعها الجغرافي :

١- الكنتورية ٢- الجيولوجية ٣- الطبوغرافية ٤- جميع ماذكر

من خواص خطوط الكنتور :

١- خطوط متوازية افقية ٢- لاتتقاطع ٣- منحنيات مغلقة ٤- جميع ماذكر

السؤال الثاني :ضع اشارة صح امام الاجابة الصحيحة واشارة خطا امام الاجابة الخاطئة (نصف درجة)

١- تساعد الشوائب الدخيلة في تعيين العمر النسبي فهي قطع صغيرة تختلف عن الصخر الذي وجدت فيه علما بانها مستمده من صخر اخر . (.....).

٢- فترة عمر النصف هو يعرف بانه الوقت اللازم لتحلل نصف كمية الذرات الاشعاعية (.....).

السؤال الثالث : قارن بين كل مايلي (درجة واحدة)

نوع العمر / وجه المقارنه	العمر المطلق	العمر النسبي
مفهومه		
يمكن استخدام في قراءته		

السؤال الرابع :عند دراستك القطاعات الجيولوجية ادرس القطاع التالي ثم اجب عن الاسئلة التي التليه (درجة واحدة)

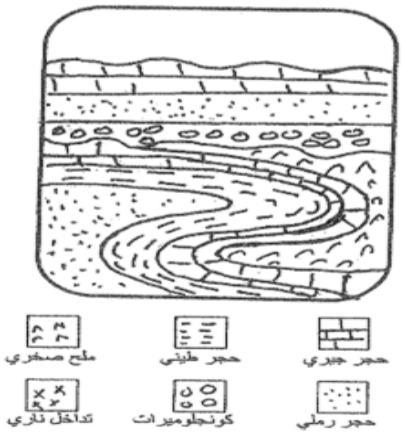

1 . حدد سطح عدم التوافق على القطاع .

2 . كم عدد الدورات الترسيبية الممثلة على القطاع ؟.....

3 . اكتب تقريرا عن الأحداث الجيولوجية التي مرت على الدورة الترسيبية الأولى (الأقدم).

.....

.....

.....

.....

.....

وزارة التربية
منطقة الفروانية التعليمية

الفصل الدراسي الثاني
تدريب على اختبار القصير ٢
من صفحة ٦٠ الى صفحة ٧٣
مادة الجيولوجيا للصف حادي عشر علمي

اسم الطالب .....
الصف ١١ع.....

السؤال الاول : اختر الاجابة الصحيحة في مايلي (نصف درجة)

عمر يهدف الى حساب عدد السنين التي مرت منذ وقوع الحادثة عن طريق الطاقة الاشعاعية :

١- عمر مطلق ٢- العمر النسبي ٣- القاطع والمقطوع ٤- تعاقب الطبقات

خط وهمي يحيط الجسم ويضم نقاطا على ارتفاع ثابت عن مستوى سطح البحر :

١ محور التماثل ٢- خط الكنتور ٣-الخريطة الطبوغرافية ٤- السرج

السؤال الثاني :ضع اشارة صح امام الاجابة الصحيحة واشارة خطا امام الاجابة الخاطئة (نصف درجة)

١ –يسمى الانخفاض الموجود بين المرتفعين متحدي القاعدة تل مخروطي (.....).
٢—تقارب الخطوط يدل على شدة الانحدار في حين ان تباعدها يدل على قلة الانحدار (.....).

السؤال الثالث : عند دراستك القطاعات الجيولوجية ادرس القطاع التالي ثم اجب عن الاسئلة التي التليه

(درجة واحدة)

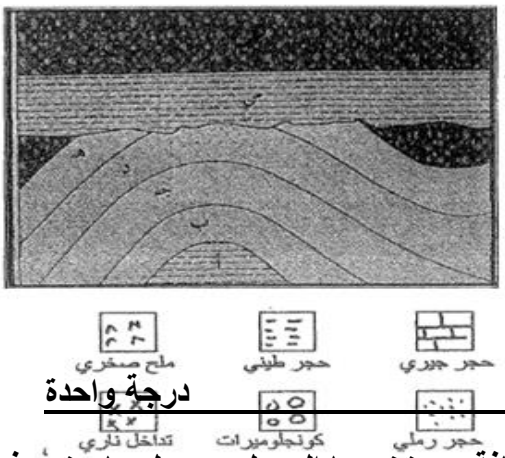

١ ـ كم عدد الدورات الترسيبية التي يمثلها القطاع .
.....
٢ ـ حدد أسطح عدم التوافق على القطاع بالأسهم . ونوعها
.....
٣ ـ أكتب تقريرا جيولوجيا عن تتابع الأحداث التي مرت بها المنطقة .
.....
.....
.....
.....
.....

السؤال الرابع : درجة واحدة

تؤدي الخرائط الجيولوجية دورا اساسيا في الدراسات الجيولوجية كافة ويستخدمها الجيولوجيين لمساعدتهم في الحصول على معلومات حول بنية الارض اذكر اهمية الخرائط الجيولوجية لدولة الكويت ؟

.....

وزارة التربية
منطقة الفروانية التعليمية

الفصل الدراسي الثاني
تدريب على اختبار القصير ٢
من صفحة ٦٠ الى صفحة ٧٣
مادة الجيولوجيا للصف حادي عشر علمي

اسم الطالب .....
الصف ١١ع.....

السؤال الاول : اختر الاجابة الصحيحة في مايلي (نصف درجة)

هي مسقط راسي للخطوط الكنتورية التصويرية المحيطة بالاجسام الارضية :

١- الخريطة الكنتورية ٢- الخرائط الطبوغرافية ٣- الخرائط الجيولوجية ٤- لاشيئ مما ذكر

تتابع لطبقات الصخور الرسوبية تكون اي طبقة احدث من الطبقة التي تقع اسفلها ما لم تكن هذه الطبقات تعرضت لقوى ادت الى قلبها :

١ مبدا القاطع والمقطوع ٢- قانون تتابع الطبقات ٣- الشوائب الدخيلة ٤- عدم التوافق

السؤال الثاني :ضع اشارة صح امام الاجابة الصحيحة واشارة خطا امام الاجابة الخاطئة (نصف درجة)

١- عدم التوافق الزاوي يستدل عليه من وجود اختلاف في ميل الطبقات للتتابعين اللذين يفصل بينهما سطح عدم توافق (.....).

٢ الخطوط ذات القيم الموجبة تدل على انها تحت مستوى البحر (.....).

السؤال الثالث : اذكر اثنين لكل مما يلي (درجة واحدة)

خواص خطوط الكنتور ؟ ١_ ٢_

اهمية الخرائط الجيولوجية ؟

١_ ٢_

السؤال الرابع : عند دراستك القطاعات الجيولوجية ادرس القطاع التالي ثم اجب عن الاسئلة التي التليه (درجة واحدة)

١ ـ كم عدد الدورات الترسيبية التي يمثلها القطاع .
.....
٢ ـ حدد أسطح عدم التوافق على القطاع بالأسهم .
٣ ـ أيهما احدث القاطع الناري أم طبقة الكونجلوميرات التي تعلوه ؟ ولماذا ؟
.....
.....
٤ ـ أكتب تقريرا جيولوجيا عن تتابع الأحداث التي مرت بها المنطقة حتى حدوث التداخل الناري.
.....
.....
.....
.....
.....
.....
.....
.....

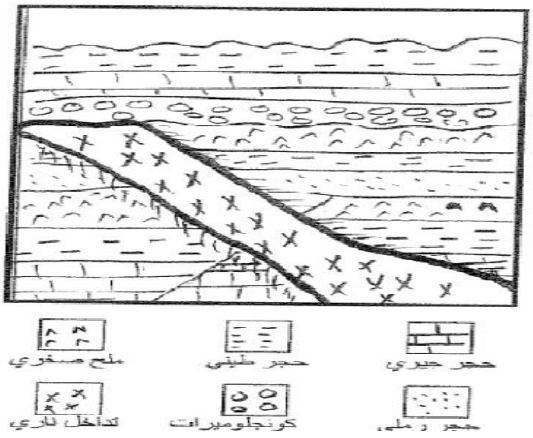

وزارة التربية
منطقة الفروانية التعليمية

الفصل الدراسي الثاني
تدريب على اختبار القصير ٢
من صفحة ٦٠ الى صفحة ٧٣
مادة الجيولوجيا للصف حادي عشر علمي

اسم الطالب .....
الصف ١١ع.....

السؤال الاول : اختر الاجابة الصحيحة في مايلي (نصف درجة)

يمكن تعين عمر الصخور بالسنين عن طريق :

١ مبدا القاطع والمقطوع ٢- قانون تتابع الطبقات ٣- الشوائب الدخيلة ٤- تحلل المعادن المشعة

الاهمية اللخرائط الجيولوجية :

١- التوزيع الجغرافي للوحدات الصخرية ٢- رصد التراكيب الجيولوجية

٣- التخطيط العسكري وحماية الامة ٤- جميع ماذكر

السؤال الثاني :اكتب المصطلح المناسب لكل مايلي (نصف درجة)

١- سطح يدل على ترسيب طبقات رسوبية فوق كتل نارية او متحولة اي ان المجموعتين مختلفتين في نوع الصخور (.....).

٢- خطوط افقية متوازية لا تتقاطع معبرة عن شكل الجسم (.....)

السؤال الثالث : عند دراستك القطاعات الجيولوجية ادرس القطاع التالي ثم اجب عن الاسئلة التي التليه (درجة واحدة).

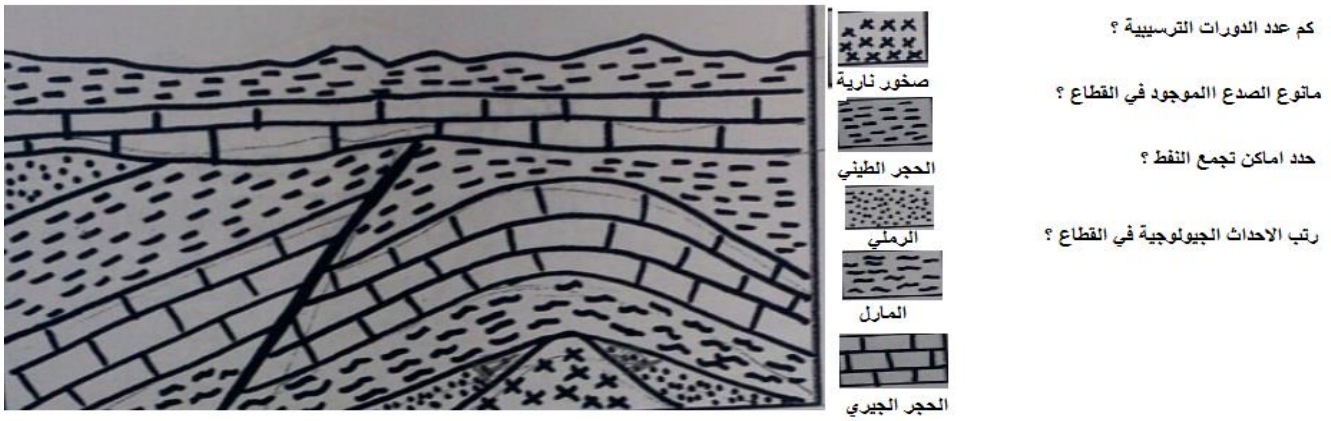

السؤال الرابع :حدد مايلي اسم الشكل الناتج للخرائط التالية ؟ (درجة واحدة)

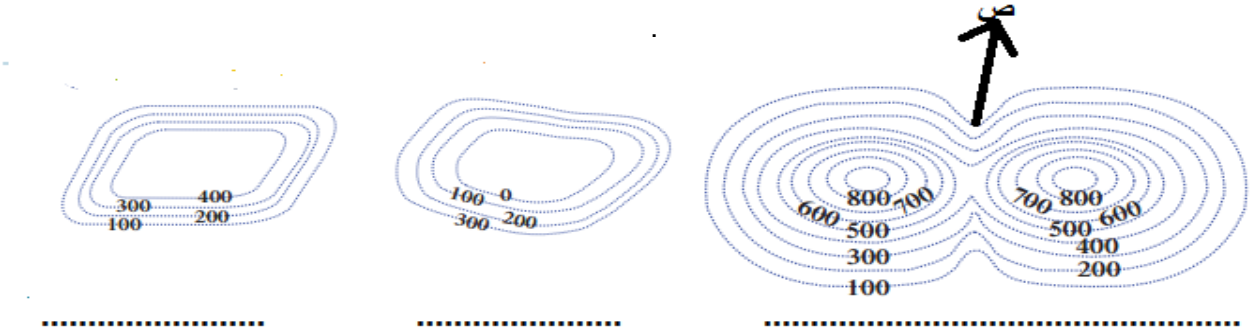

....

وزارة التربية
منطقة الفروانية التعليمية

الفصل الدراسي الثاني
تدريب على اختبار القصير ٢
من صفحة ٦٠ الى صفحة ٧٣
مادة الجيولوجيا للصف حادي عشر علمي

اسم الطالب .....
الصف ١١ع.....

السؤال الاول : اختر الاجابة الصحيحة في مايلي (نصف درجة)

القاطع الذي يخترق تتابعا رسوبيا يكون :

١ – هو الاحدث ٢- هو الاقدم
٣- نفس العمر ٤- تكون قبل التتابع الرسوبي

خريطة تستخدم في تنفيذ المشاريع ولانها تحدد الارتفاعات بدقة

٢- الخريطة الكنتورية ٢- الخريطة الطبوغرافية ٣- الخريطة الجيولوجية ٤- جميع ماذكر

السؤال الثاني : اكتب المصطلح المناسب في ما يلي (نصف درجة)

- سطح تعرية يدل على انقطاع في الترسيب اثناء تكون تتابع رسوبي (.....).
- هو الوقت اللازم لتحلل نصف كمية الذرات الاشعاعية (.....).

السؤال الثالث : عند دراستك للخرائط ارسم ما يلي (درجة واحدة)

منخفض مخروطي تل مخروطي

سرج سهل

السؤال الرابع : عند دراستك القطاعات الجيولوجية ادرس القطاع التالي ثم اجب عن الاسئلة التي التليه (درجة واحدة).

٢ – التمرين الثاني : أدرس المقطع التالي جيداً ثم أجب :

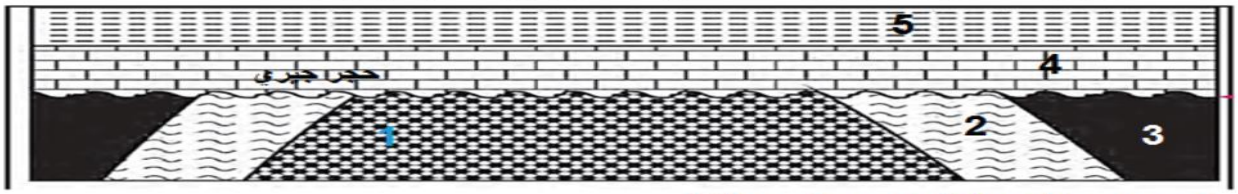

١ – رتب الاحداث الجيولوجية ؟
٢ – حدد اسطح عدم التوافق وما نوعها ؟
كم عدد دورات الترسيب ؟
٤ –ايهما احدث طبقة الحجر الجيري ام الطبة علل اجابتك .